سایت مرجع(کلیک کنید)

www.riazi1000.ir

کلیک کنید

ریاضی ششم	ریاضی هفتم	ریاضی هشتم و نهم	ریاضی دهم
www.riazisheshom.ir	www.tadris7.ir	www.riazinohom.ir	www.riazidahom.ir

تدریس خصوصی (تهران)

همه ی دروس – همه ی مناطق(از دبستان تا دانشگاه)

مرکز و شرق – شمال - غرب

۷۶۸۷۵۸۴۵ ۲۲۸۶۹۰۳۸ ۴۴۴۶۹۹۲۱

مشاورین ثبت نام:

آقای احمدی: ۰۹۱۲-۹۳۱-۹۸۸۱

خانم هاشمی: ۰۹۱۰-۶۰۱-۱۴۰۰

اعزام مشاور جهت مشاوره و ثبت نام در منزل محل کار و یا در محل موسسه

دریافت شهریه به صورت اقساطی طی دوره

پیگیری مستمر و برگزاری آزمون های پیشرفت تحصیلی طی دوره آموزشی

برای عضویت در کانال تلگرام riazi1000@ کلیک کنید:

:

پاسخنامه

الف)

۱- د) ۲) الف) زوج ۳) ج

ب)

۴) راست ۵) عددی فرد ۶) صحیح

پاسخ (۷)

۳۵۴ ۲۵۵ (۱۷۲۰۰) ۹۶ (۸۰)

پاسخ شماره ۸

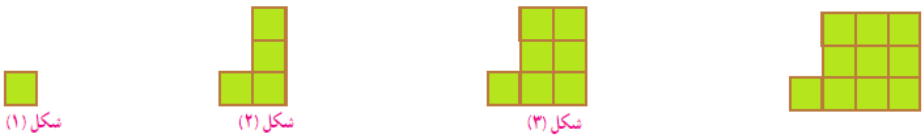

پاسخ 9

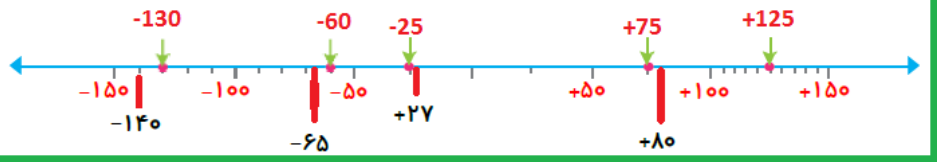

پاسخ (۱۰)

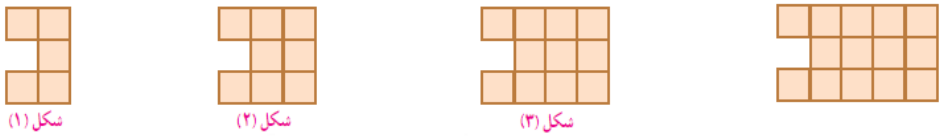

۱- (۳ × شماره شکل) = تعداد مربع ها

پاسخنامه

11- با کارت های ۰ ، ۴ ، ۲ ، ۷ ، ۳ ، ۵ ، ۱

به حروف	به رقم
	100234

الف ــ کوچک ترین عدد شش رقمی 230017

ب ــ کوچک ترین عدد ۶ رقمی و فرد با رقم دهگان هزار ۳ و رقم دهگان ۱ را بنویسید

۱۲ ــ اعداد زیر را از کوچک به بزرگ مرتب کنید .

-۵۵ , +۸۷ , -۱۴۰ , +۲۰ , -۱۰۰

-۱۴۰ , -۱۰۰ , -۵۵ , +۲۰ , +۸۷

۱۳ ــ مقایسه کنید و علامت مناسب (< = >)قرار دهید.

-۸ > +۴	۱۵۶۶۷۳۹۹ > ۹۸۸۲۳۹۹	۰ > -۵	
+۴۵ > +۱۲۰	۷۰۰۰۵ < ۵۰۰۰۰۷	-۳۲ < -۱۸	

پاسخ (۱۴)

به رقم ← ۴۹۰۰۰۸۰۷

گسترده ← ۴۹ × ۱۰۰۰۰۰۰ + ۸ × ۱۰۰ + ۷

ب) ضرب در ۱۰۰ ← ارزش مکانی ۸ به دهگان هزار تبدیل می‌شود

پاسخ (۱۵) علی ۱۰۰۰۹۲ تومان پول دارد . اگر او ۳۴۰۰۶۷ تومان به برادرش بدهکار باشد . او چند تومان پول دارد .

سایت مرجع(کلیک کنید)

www.riazi1000.ir

کلیک کنید

ریاضی ششم	ریاضی هفتم	ریاضی هشتم و نهم	ریاضی دهم
www.riazisheshom.ir	www.tadris7.ir	www.riazinohom.ir	www.riazidahom.ir

تدریس خصوصی (تهران)

همه ی دروس – همه ی مناطق(از دبستان تا دانشگاه)

مرکز و شرق – شمال - غرب

۷۶۸۷۵۸۴۵ ۲۲۸۶۹۰۳۸ ۴۴۴۶۹۹۲۱

مشاورین ثبت نام:

آقای احمدی: ۰۹۱۲-۹۳۱-۹۸۸۱

خانم هاشمی: ۰۹۱۰-۶۰۱-۱۴۰۰

اعزام مشاور جهت مشاوره و ثبت نام در منزل محل کار و یا در محل موسسه

دریافت شهریه به صورت اقساطی طی دوره

پیگیری مستمر و برگزاری آزمون های پیشرفت تحصیلی طی دوره آموزشی

برای عضویت در کانال تلگرام riazi1000@ کلیک کنید: